KULLEĠĠ SAN NIKOLA
EŻAMIJIET TA' NOFS IS-SENA – LIVELL PRIMARJU
Frar 2016

IR-RABA' SENA	**L-ISTUDJI SOĊJALI**	**IL-ĦIN: Siegħa**

L-Isem u l-kunjom: ______________________ **Il-Klassi:** _________

Marka Totali
______ / 80

A. Aqta' sing taħt il-kelma t-tajba. (10 marki)

1. Meta t-temperatura tkun baxxa ħafna, l-ilma tax-xita jsir (silġ, sħab, sħun).
2. Fix-xitwa x-xemx tkun aktar baxxa u l-ġurnata (titwal, tiqsar, tinbidel).
3. F'Malta m'għandniex (xmajjar, muntanji, widien) biex jilqgħu r-riħ.
4. Ir-riħ huwa arja (għolja, kbira, miexja).
5. It-termometru ġie vvintat minn xjenzat (Ingliż, Svediż, Amerikan).
6. Il-(ħamrija, bandla, boxxla) nsibuha fuq l-ajruplani, il-vapuri u d-dgħajjes.
7. L-ilma ġieri, l-ilma fil-bjar u fil-ġwiebi jiġi mix-(xita, xemx, xlokk).
8. Ħafna festi Maltin jiġu ċċelebrati (fir-rebbiegħa, fis-sajf, fix-xitwa).
9. Id-Deżert tas-Saħara jiksi parti kbira mill-kontinent (Afrikan, Awstraljan, Amerikan).
10. L-istaġun bejn il-21 ta' Ġunju u l-20 ta' Settembru huwa (l-ħarifa, s-sajf, r-rebbiegħa).



B. Ikteb VERU jew FALZ. Ara l-eżempju. **(10 marki)**

Eż.	*Fl-Awstralja nsibu partijiet mimlija bid-deżert.*	*Veru*
1	Fis-Siberja t-temperatura ġieli tinżel 70 grad taħt iz-zero.	
2	It-temp jinbidel skont l-istaġuni.	
3	Il-ħarifa tiġi wara x-xitwa.	
4	Meta t-temperatura tkun baxxa, l-ilma tax-xita jisħon.	
5	Meta t-temperatura tkun 36°C inkun nista' mmur ngħum.	
6	Fl-eqqel tax-xitwa jkollna bżonn inkessħu d-dar.	
7	Fl-Awstralja hemm bosta reġjuni li jixbħu l-klima ta' Malta.	
8	Il-pajjiżi li jinsabu qrib l-ekwatur jieħdu l-istess ammont ta' sħana s-sena kollha.	
9	Ir-rebbiegħa tibda fil-21 ta' Marzu.	
10	It-temp ma jaffettwax ix-xogħol tal-bidwi.	

Ċ. Imla l-vojt bil-kliem mogħti dwar il-ħin liberu. (5 marki)

l-boċċi	l-għana	il-kompjuter	il-kaċċa	ż-żibeġ

Fl-antik, in-nies kellhom bosta passatempi fosthom ______________________ u ______________________. It-tfal kienu jgħaddu ħafna ħin jilagħbu barra. Fost ħafna logħob kienu jilagħbu ______________________ u ______________________.

Ħafna mill-passatempi llum inbidlu. Insemmu pereżempju li llum bosta logħob li t-tfal jilagħbu nsibuh fuq ______________________.

D. Bil-għajnuna tal-istampa, imla l-vojt. (5 marki)

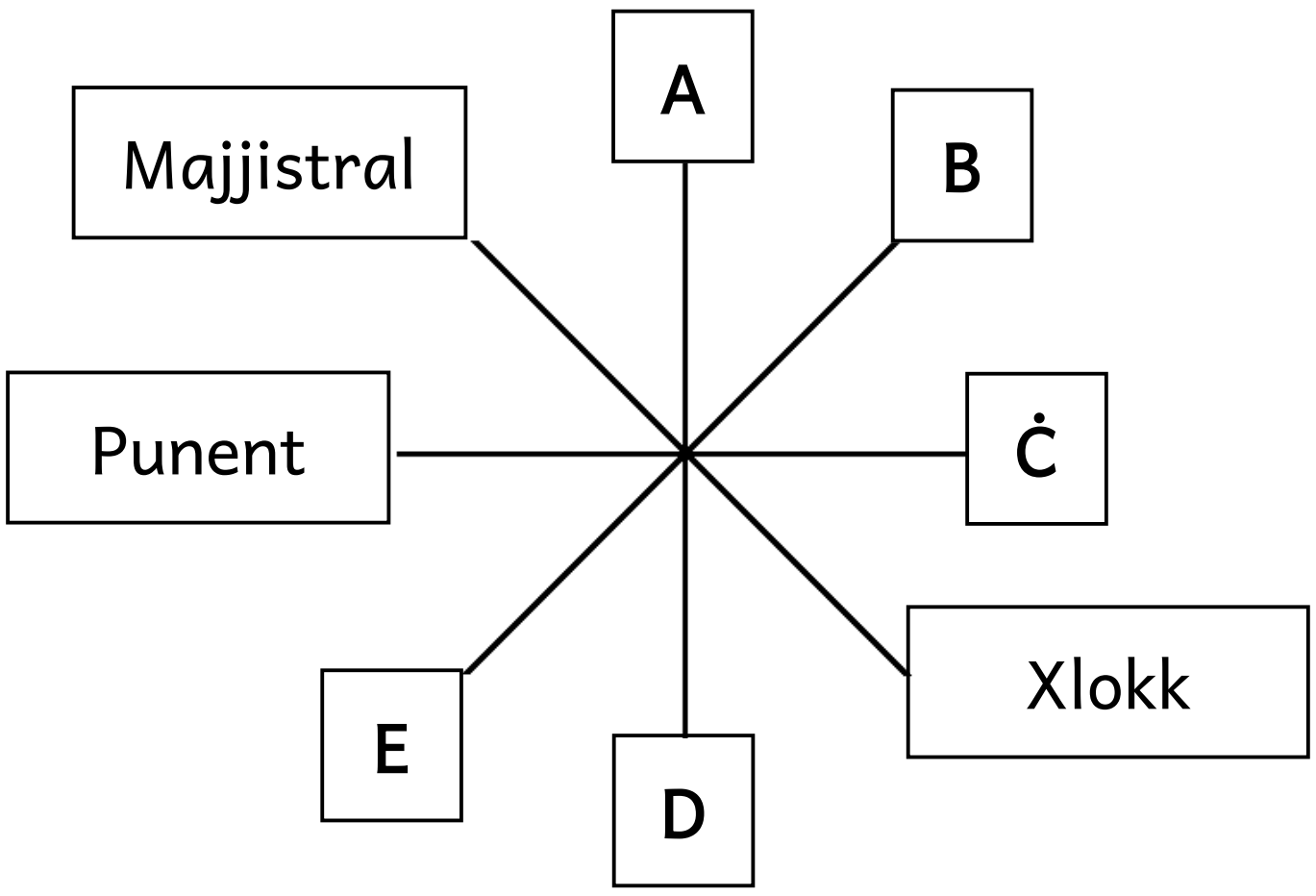

1. **Lbiċ** huwa mmarkat bl-ittra ... ______________________
2. Liema direzzjoni turina l-ittra Ċ ? ______________________
3. Mid-direzzjoni B jonfoħ riħ mill-... ______________________
4. Riħ li jonfoħ mid-direzzjoni A, ikun ġej mit- ... ______________________
5. Min-Nofsinhar jonfoħ riħ sħun jew riħ kiesaħ? ______________________

E. Aqra sew dan li ġej. **(10 marki)**

Bħalissa ninsab fil-vaganzi tas-sajf. Nista' nilbes ħwejjeġ ħfief, niekol il-ġelati u mmur il-baħar biex niffriska ftit. F'dan iż-żmien ikun hawn ħafna festi. Niekol ħafna frott bħal ħawħ, għajnbaqar, dulliegħ u bettieħ. Ftit tal-ġranet oħra jkollna l-festa ta' Santa Marija.



Issa aħseb sew fuq li qrajt u mit-TABELLA, agħżel l-aħjar tweġiba biex timla r-rapport tat-temp. Xi tweġibiet huma żejda.

Xemxi u sabiħ	8:00pm	5mm	ħafif mix-Xlokk
ħafif bi ftit li xejn imbatt	5:00pm	11	xejn
Il-Ħadd 10 t'Awwissu	37 °C	3	qawwi mill-Majjistral
Il-Ħadd 10 ta' Marzu	25 °C	tas-sajf	tar-rebbiegħa

1 Data ____________________

2 Temp ____________________

3 Riħ ____________________

4 Baħar/Imbatt ____________________

5 L-ogħla temperatura ____________________

6 Ix-xemx tinżel ____________________

7 It-temperatura tal-baħar ____________________

8 UV index ____________________

9 Xita ____________________

10 Dan huwa l-istaġun ____________________

F. **Qabbel billi tikteb in-numru fil-kaxxa t-tajba.** **(10 marki)**
Ara l-eżempju.

1	*Il-pitiross ipassi minn Malta*		Ħal Luqa.
2	L-umdità mhijiex ħlief ilma		riħ qawwi.
3	L-uffiċċju meteoroloġiku qiegħed		fis-sajf.
4	Bl-anemometru nkejlu		fir-rapport tat-temp.
5	Grigalata tfisser		fir-rebbiegħa.
6	Informazzjoni dwar it-temp insibuha		fl-arja.
7	Fl-Awstralja l-Milied jiġi ċċelebrat		l-qawwa tar-riħ.
8	Il-festa tal-Għid il-Kbir tiġi ċċelebrata		l-ekwatur.
9	Fir-reġjuni ta' kesħa kbira, f'ambjent aħrax u kiesaħ insibu nies li nsejħulhom	*1*	*fil-ħarifa.*
10	Fl-Amerika t'isfel, il-pajjiżi bħall-Brażil jinsabu qrib		Ħimalaja.
11	Fiċ-Ċina nsibu kesħa kbira tal-muntanji		Eskimiżi.

Ġ. Semmi **(10 marki)**

Eż.	*Maltempati kbar b'ħafna xita u riħ qawwi*	*ċikluni*
1	Permezz tiegħu nkejlu kemm tkun niżlet xita.	
2	F'dan l-istaġun tibda l-iskola.	
3	Jitla' u jinżel fit-termometru skont is-sħana jew il-kesħa li tagħmel.	
4	F'din il-festa konna nilbsu ta' maskarati.	
5	Dan għamel l-ewwel presepju.	
6	Isem ieħor li ngħidu għall-festa ta' San Pietru u San Pawl.	
7	Strument mużikali li kien jintuża fl-antik.	
8	Iżommu l-ħamrija milli tinżel fil-widien.	
9	Ħafna siġar jerġgħu jtellgħu l-weraq f'dan l-istaġun.	
10	Din tħares dejjem lejn it-Tramuntana.	

G. Imla l-vojt b'dan il-kliem. (10 marki)

tromba	**titwal**	**Marsaxlokk**	**klima**	**ħamla**
kitarri	**drawwiet**	**Istati Uniti tal-Amerika**	**pingwini**	**Indja**

1. Fis-sajf tagħmel ħafna sħana, ix-xemx tkun fil-għoli u l-ġurnata

   _________________________ .

2. Riħ li jobrom u jdur fit-tond jissejjaħ _________________________.

3. Fl-_________________________, il-klima tinbidel minn sitt xhur

   sħaħ ta' xita għal-sitt xhur ta' nixfa kbira.

4. Fil-Pol tat-Tramuntana jgħix l-Ors Polari filwaqt li fil-Pol

   tan-Nofsinhar insibu l-_________________________.

5. Is-sajjieda f'Malta nsibuhom l-aktar fl-irħula ħdejn il-baħar bħal

   _________________________.

6. Bosta _________________________ daħlu f'Malta permezz

   tal-Kavallieri.

7. L-għana Malti jkun akkumpanjat mill-_________________________.

8. Kelma oħra għall-elementi tan-natura bħas-sħana, il-kesħa,

   ix-xita, il-borra jew in-nixfa hija _________________________.

9. Fl-_________________________ nsibu sensiela ta' muntanji kbar

   magħrufa bħala *The Rocky Mountains.*

10. Il-ħamrija li tiltaqa' ma' ħmieġ u skart ieħor u tinġarr mal-ilma

    tax-xita tissejjaħ _________________________.

Għ. Iċ-Ċiklu tal-ilma **(3 marki)**

Ix-xemx, bir-raġġi u bis-sħana tagħha, tiġbed l-ilma lejha; l-ilma jitla' 'l fuq. L-ilma li tiġbor ix-xemx jinġabar minn bosta bnadi.

Semmi tliet eżempji minn fejn jevapora l-ilma.

1. ______________________________

2. ______________________________

3. ______________________________

Imla l-vojt f'dan li ġej. **(2 marki)**

4. L-ilma li jevapora jsir ______________ bħal dak li joħroġ mill-kitla. Dan ikun safi u ______________.



H. Ikteb ħames sentenzi biex tispjega għaliex l-ilma huwa importanti għalina l-bnedmin. **(5 marki)**

1. ______________________________

2. ______________________________

3. ______________________________

4. ______________________________

5. ______________________________

TMIEM IL-KARTA